MİLLİ EĞİTİM ve KÜLTÜR BAKANLIĞI

KOLEJLERE GİRİŞ SINAVI-2 (KGS-2)

25 MAYIS 2019 CUMARTESİ

İsim/Soy İsim:..... **Aday No:.....**

1. OTURUM SORU KİTAPÇIĞI

TÜRKÇE - FEN ve TEKNOLOJİ - SOSYAL BİLGİLER

GENEL AÇIKLAMA

1. Bu kitapçık, Türkçe, Fen ve Teknoloji ve Sosyal Bilgiler testlerini içermektedir. Kitapçık, 19 sayfadan oluşmaktadır. Sizlere bu üç testi cevaplayacağınız bir de TEST CEVAP KAĞIDI verilmiştir. Soru kitapçıklarının dağıtılmasının ardından salon başkanının gözetiminde kitapçığınızı kontrol ediniz. Hatalı olan kitapçıklar, sınav başlamadan önce mutlaka değiştirilecektir.

2. Size dağıtılan cevap kağıdının üzerine adınız, soyadınız ve aday numaranız bilgisayar tarafından yazılmış ve kodlanmıştır. Cevap kağıdının size ait olup olmadığını ve aday numaranızın doğru kodlanmış olup olmadığını kontrol ediniz.

3. Bu test 27 Türkçe, 14 Fen ve Teknoloji ve 10 Sosyal Bilgiler sorusundan ibarettir. Tüm soruları cevaplandırmanız için sizlere toplam **90 dakikalık** süre verilecektir.

4. Her soru için dört farklı seçenek verilmiştir. Bu seçeneklerden sadece bir tanesi doğru yanıt olup diğerleri yanlıştır.

5. Cevap kağıdında her sorunun karşısında bulunan şıklardan doğru yanıt olan dairenin içini koyu siyah ve yumuşak bir kurşun kalemle iyice karalayınız. **Kurşun kalem dışında başka çeşit kalem kullanmayınız.** Yanlış karalamalarınızı düzeltirken iz bırakmayacak şekilde dairenin içini yumuşak bir silgiyle iyice siliniz.

6. Soru kitapçığı üzerindeki boş yerleri işlem yapmak için kullanabilirsiniz.

7. Cevap kağıdınızı buruşturmayınız ve üzerine gereksiz işaret koymayınız.

8. Bilmediğiniz soruların üzerinde fazla zaman kaybetmeden diğer sorulara geçiniz. Zamanınız kalırsa yapmadıklarınızı yeniden gözden geçirirsiniz.

Şimdi aşağıdaki örnek sorunun nasıl cevaplandırılacağını beraberce inceleyelim.

ÖRNEK SORU: **"Temiz"** sözcüğünün **(zıt)** anlamlısı hangisidir?

A) Saf B) Kirli C) Yıkanmış D) Pak

Bu sorunun doğru cevabı "Kirli" dir. Doğru olan bu cevap B seçeneğidir. Onun için, cevap kağıdındaki bu soruya ait seçeneklerde B dairesinin içi karalanmıştır. Hepinize başarılar dileriz.

(A) (B) (C) (D)

Soru 1. "Yürüyüş yolumuz üzerindeki kızılçam, zeytin, keçiboynuzu, defne, mersin ağaçları; kuşkonmazlar, adaçayları Akdeniz ikliminin özelliklerini hissettiriyor, bizi doğayı keşfetmeye çağırıyordu." **cümlesinde bileşik yapılı kaç sözcük vardır?**

A) 4
B) 5
C) 6
D) 7

Soru 2. **Aşağıdaki cümlelerin hangisinde yüklem,** geniş zaman I. tekil şahısla **çekimlenmiş bir fiildir?**

A) Yaz günlerinde ağustos böcekleri durmadan öter.
B) Güneş tutulmasını ilk kez okulda, isli camdan bakarak izlemiş.
C) Paraya dokunduktan sonra ellerimi hemen yıkarım.
D) Kütüphaneden aldığım kitabı okumak için sessiz bir ortam arıyorum.

Soru 3. **Aşağıda verilen cümlelerin hangisinde niteleme sıfatı kullanılmıştır?**

A) Her sabah kahvaltımı yapar sonra evden çıkarım.
B) Otele yerleştikten sonra birer bisiklet kiralayıp şehri bisikletlerle gezdik.
C) Mezuniyet balomuzun hangi gün olacağı henüz belirlenmedi.
D) Annem, yaptığı börekleri kızgın yağa atıp kızartıyordu.

Soru 4. **Aşağıdaki cümlelerden hangisinde eylemi yapan kişiler diğerlerinden farklıdır?**

A) Bugün, Gazimağusa'daki tarihi yerleri görmeye gidiyoruz.
B) Resim dersinde sulu boya resim çalışması yapacaksınız.
C) Kıbrıs Günü'nde, Kıbrıs'a özgü yemekleri ve tatlıları tanıdık.
D) Teneffüsten sonraki müzik dersinde şen şarkılar söyleyeceğiz.

Soru 5.

Daha ilkokuldayken köyde yaşayan çocukların yaşamını anlatan bir öykü yazmak istiyordum. Sanırım ilkokul öğretmenime duyduğum hayranlığın bir ürünüydü bu. Çünkü öğretmenim de öykü yazarıydı ve birçok kitabı vardı. Hayalimin bu kadar çabuk gerçekleşeceğini düşünemezdim bile.

Metne göre, aşağıdaki yorumlardan hangisi <u>doğru değildir</u>?

A) Yazarın ilkokul öğretmeni öykülerini, yazdığı kitaplarda yayınlamıştır.
B) Yazarın öykü yazmasında ilkokul öğretmeni ona ilham kaynağı olmuştur.
C) Yazar, çok uzun yıllar sonra köy yaşamıyla ilgili öyküler yazabilmiştir.
D) Yazar, köyde yaşayan çocukların yaşamını anlatan öykü yazmıştır.

Soru 6.

"Oyunun sonunda izleyiciler oyuncuları alkışladı." **cümlesinin öğe dizilişi aşağıdaki cümlelerin hangisinde aynı sıralamadadır?**

A) Pazar yerinde bir adam renkli balonlar satıyordu.
B) Evin önündeki bisikleti çalan hırsız yakalandı.
C) Hafta sonu arkadaşlar toplanıp sinemaya gittik.
D) Aytaç ile Sertaç bisikletleriyle gezintiye çıktılar.

Soru 7.

"Hava çok sıcaktı. Yolu üzerindeki dondurmacıdan külahta bir dondurma aldı. Dondurma meyveliydi. Dondurmasını yalayarak eve doğru yürüdü. Serinlemişti. Dondurma çok güzeldi."

Bu paragrafı oluşturan cümlelerin yüklemi olan sözcüklerden kaç tanesinin kökünün türü isimdir?

A) 1
B) 2
C) 3
D) 4

Soru 8. **Aşağıdaki cümlelerin hangisinde virgül (,)** "Kırmızı, sarı, beyaz çiçekler doğaya ayrı bir güzellik katıyordu." **cümlesindeki göreviyle kullanılmıştır?**

A) Panoya çaktığı küçük, ince çiviye kendi fotoğrafını astı.
B) Gülten ile Ayten, harçlıklarıyla bakkaldan yemiş almaya gittiler.
C) O, kendisine ve bilgisine güvenilebilecek nadir insanlardan biridir.
D) Karton, makas, kalem ve tutkal kullanarak güzel bir ev maketi yaptı.

Soru 9. **Aşağıdaki tabloda altı çizili zamirlerden hangisinin türü yanlış işaretlenmiştir?**

	Cümleler	Kişi Zamiri	İşaret Zamiri	Belgisiz Zamir	Soru Zamiri
1	Onları raftaki yerlerine koyar mısın?		X		
2	Sana verdiğim kitabı okudun mu?				X
3	Kendime aldığım kol saati bozuk çıktı.	X			
4	Herkes, dikkatle müdürü dinliyordu.			X	

A) 1. cümlede
B) 2. cümlede
C) 3. cümlede
D) 4. cümlede

Soru 10. **Aşağıdaki cümlelerde altı çizili sözcüklerden hangisi yapı bakımından diğerlerinden farklıdır?**

A) Çocuk, taşları denize doğru atarak suyun yüzünde sektirmeye çalışıyordu.
B) Sebze bahçesinde çalışan işçiler biber, patlıcan, domates topluyorlardı.
C) Annem, yıllar önce dayımın kendine gönderdiği mektubu bize okudu.
D) Oynadıktan sonra oyuncaklarımı paketlerine koyar, rafa kaldırırım.

Soru 11.

RENGİN

Beyaz kedim,
Siyah kedim,
Sarı kedim;
Adı "Rengin" olsun dedim.
Rengin ablamın adıdır;
O şimdi kızacak bana.
Fakat hocam söyledi ya!
Rengin demek renkli demek;
Bunda ne var gücenecek?
Lâkin ablam,
Rengin ablam,
Sofra başında dün akşam
Astı bana çehresini.
Belki biraz hakkı vardı
Çünkü Rengin onun adı.
Ne var fakat gücenecek;
Rengin demek renkli demek;
Benim kedim de üç renkli,
Hem de benekli benekli.
Sarı kedim,
Siyah kedim,
Beyaz kedim;
Adı "Rengin" olsun dedim.

Tevfik Fikret

Bu şiirle ilgili olarak aşağıda verilen sonuçlardan hangisi doğrudur?

A) Abla, adının kediye verilmesini, kardeşinin kendini çok sevdiğine saymış ve sevinmiştir.

B) Çocuk, kediye ablasının adı olduğu için değil, kedi renkli olduğu için “Rengin” adını koymuştur.

C) Çocuk, ablasına takılmak, onunla alay etmek için kedisine “Rengin” adını takmıştır.

D) Çocuk, kedisine “Rengin” adını koymaya karar verirken, ablasının darılıp güceneceğini düşünememiştir.

Soru 12. **Aşağıda verilen sıfat türlerinden hangisi** “Üç gün sonra oynanacak olan bu maçı hangi kanal yayınlayacak?” **cümlesinde <u>kullanılmamıştır</u>?**

A) Sayı sıfatı
B) İşaret sıfatı
C) Belgisiz sıfat
D) Soru sıfatı

Soru 13. **Aşağıdakilerden hangisinde eylem, sözün söylendiği anda gerçekleşmektedir?**

A) Kaplumbağalar kumsala yumurtalarını bırakıp geri, denize döndüler.
B) Yolumuz üzerindeki çilek tarlasından çilek de toplayacağız.
C) Bindiği minibüs, güzergahı üzerindeki her durakta durup yolcu almış.
D) Kısacık boyuyla basketbol topunu çemberden geçirmeye çalışıyor.

Soru 14.

Fotoğraf çekmek insana çok şey kazandırır. Fotoğraf çektikçe çevremizdeki güzelliklerin, sıra dışılıkların daha çok farkında oluruz. Çoğu zaman, üzerine basıp geçtiğimiz boynu bükük bir papatya, fotoğrafını çektiğimizde bize çok şey anlatmaya başlar. Gökyüzünü artık daha farklı görürüz, bulutlar bir şeyler anlatır bize. Etrafımızın ne kadar renkli, ne kadar canlı olduğunu fark ederiz. İçinde bulunduğumuz zamanı iyi değerlendirir, stresten kurtuluruz.

Aşağıdakilerden hangisi fotoğraf çekmenin bu parçada sözü edilen yararlarından biri değildir?

A) Farklı yerleri ve mekanları görmeye fırsat yaratır.
B) Çevremizdeki farklılıkları algılama becerisini geliştirir.
C) Sıkıntılardan uzaklaştırır, mutlu anlar yaşatır.
D) Zamanın verimli kullanılmasına katkı koyar.

Soru 15. **Aşağıdaki cümlelerin hangisinde yazım yanlışı yoktur?**

A) Bir de baktımki Yavuz, eşeğin üzerinde festivali geziyordu.
B) Fuarın 9 Haziran 2019 tarihinde saat 17.30'da açılacağı duyurulmuştu.
C) Zeynepler'in sevimli köpeği Mimi kayboldu.
D) Helva paketinin üzerinde 1955'den beri Kıbrıs'ta üretildiği yazıyordu.

Soru 16.

Ben, sağlığımıza zararlı etkileri olduğu bilinen kola ve meşrubatları içmem. Siz de içmeyiniz. Bunların yerine süt, ayran gibi sağlığımıza yararlı içecekleri içelim. Laren, sağlığı için cips, hamburger, pizza gibi hazır yiyecekleri yemez. Meyvelerin, kuru yemişlerin yararlı, boyalı şekerlerin zararlı olduğunu unutmayınız. Obezite, diyabet gibi hastalıklardan korunmak için sağlıklı beslenelim, zararlı yiyecek ve içecekleri tüketmeyelim.

Bu metinde geçen olumsuz fiillerin altlarını çizip sayınız. Kaç tane olumsuz fiil buldunuz?

A) 3
B) 4
C) 5
D) 6

Soru 17.

- Vayyy**( )** Özkan sen misin**( )**
- Evet**( )**benim**( )**
- Geleceğini hiç duymamıştım**( )** Ne zaman geldin**( )**
- Dün akşam geldim**( )**

Yukarıdaki parantezlerin içine aşağıdaki noktalama işaretlerinden hangisinin getirilmesi uygun <u>olmaz</u>?

A) Soru işareti (?)
B) Ünlem işareti (!)
C) Virgül (,)
D) İki nokta (:)

Soru 18. **Aşağıdaki sözcüklerden hangisi kök ve eklerine doğru ayrılmış olup kök ve ekler doğru isimlendirilmiştir?**

A) Saygılı → Say (Fiil kök) - gı (Yapım eki) - lı (Çekim eki)

B) Gölgelikleri → Gölge (İsim kök) - lik (Yapım eki) - ler (Çekim eki) - i (Çekim eki)

C) Okuttular → Okut (Fiil kök) - tu (Çekim eki) - lar (Çekim eki)

D) Sorular → Soru (İsim kök) - lar (Çekim eki)

Soru 19. **Aşağıda numaralanmış olarak verilen cümlelerin hangilerinde unvan (san) sıfatı <u>yoktur</u>?**

I. Yurtdışında yaşayan Metin amcam, tatilde bizi ziyarete gelecekmiş.
II. Yazar Aliye Hanım, kitap tanıtımında okuyucularına kitaplarını imzaladı.
III. Bakkal Ali'nin ilk işi günlük gazeteleri ve sıcak ekmekleri teslim almaktı.
IV. Doktor, atletizm yarışlarına katılacak olan çocukları muayene etti.

A) I. ve II. cümlede
B) II. ve III. cümlede
C) III. ve IV. cümlede
D) I. ve IV. cümlede

Soru 20. **Aşağıdaki cümlelerin hangisinde "-de, -da" nın yazımıyla ilgili bir yanlışlık <u>yoktur</u>?**

A) Yarın uzun bir ip getir de teneffüste ip atlayalım.
B) Her şey satıyor dediğin sizin bakkal kitapta mı satıyor!
C) Son okuduğum kitap da çok ilginç fıkralar vardı.
D) Kitap okurken bende gözlük takıyorum.

Soru 21.

"Özlediğin nedir diye sorsanız;
Kıyısında çimenlerle bir dere
Ve berrak gökyüzünde ebemkuşağı,
Hava kirliliğinden, makine gürültüsünden,
Beton yığınlarından uzak,
Tabiatın kucağında yaşamak,
Şu üç günlük hayatı..."

Bu şiire göre, aşağıda numaralanmış olarak verilen sonuçlardan kaç tanesi şairin özelliklerini yansıtmaktadır?

I. Bütün olumsuzluklarına karşın şehir hayatını sevmektedir.
II. Bozulmamış bir çevrenin hayalini kurmaktadır.
III. Yaşadığı yerdeki gürültüden, kirli havadan, betonlaşmadan huzursuzdur.
IV. Sessiz, temiz havalı, betonlaşmamış bir yerde yaşama isteği ile doludur.
V. Doğayı kirletenlere karşı kızgın ve öfkelidir.
VI. İnsan ömrünün kısa olduğunu düşündüğünden hiçbir şeyi umursamamaktadır.

A) 1
B) 2
C) 3
D) 4

Soru 22. "O, bu dükkanda satılan en güzel elbisedir." **cümlesinde geçen ve zamir olan sözcüğün benzeri aşağıdaki cümlelerin hangisinde vardır?**

A) O, engelli yurttaşların daha iyi yaşaması için emek vermiş değerli bir insandır.
B) O, dedemden babama kalan ve manevi değeri olan bir cep saatidir.
C) O çocuk okulun basketbol takımında oynayan en iyi sporcudur.
D) O, her gün kırmızı bisikletiyle okula gelip gitmektedir.

Soru 23. Aşağıdaki cümlelerde geçen altı çizili sözcüklerin hangisi sözcüğün anlamını değiştiren bir ek almamıştır?

A) Arı gibi çalışan karıncaları, oturup saatlerce izledim.
B) Kazılarda çok eski dönemlere ait para ve eşya bulmuşlar.
C) Müdürümüz, törenimizle ilgili duyuruyu velilerimize gönderdi.
D) Belediye çalışanları, şehirdeki meydanları çiçeklerle donattı.

Soru 24.

KAVUK

…
Yine anlayamaz adam.
Hocanın okuma bilmediğini zanneder:
"Ayıp Hoca, ayıp!"der.
"Benden utanmıyorsan şundan utan!
Şu, başındaki koca kavuktan"
Hoca kavuğu çıkartıp uzatır.
Sonra:
- Madem ki iş kavuktadır;
Haydi giy de şunu,
Kendin oku bakalım bu mektubu.

Nasrettin Hoca'nın "Kavuk" adlı fıkrasından alınan bu bölümde geçen zamirlerle ilgili aşağıdaki açıklamalardan hangisi doğrudur?

A) Bu fıkradaki zamirlerden dört tanesi hal eki almıştır.
B) Son dizede zamir olan sözcük kişi (şahıs) zamiridir.
C) Dördüncü ve beşinci dizelerdeki zamirler, işaret zamiridir.
D) Fıkrada geçen "şundan" sözcüğü "mektup" yerine kullanılmıştır.

Soru 25. Aşağıdaki cümlelerin hangisinde yazım yanlışı yoktur?

A) PROF. DR. Ahmet BİLGE konferans vermek için ülkemize gelmiş.
B) B.R.T.K'nin vericileri, Beşparmak Dağları üzerinde Servili Tepe'dedir.
C) Turistler tarihi yerlerimizi gezmek, denize girmek için KKTC'ye gelirler.
D) THY'ndan verilen bilgiye göre, yaz mevsimi boyunca uçak seferleri artırılmış.

Soru 26. **Aşağıda numaralanmış olarak verilen cümlelerin hangilerinde belgisiz sıfat vardır?**

I. Bir çocuk, evin köşesine gizlenmiş, içini çeke çeke ağlıyordu.
II. Vücudumuza olan faydasını bildiğimden kahvaltıda bir bardak süt içerim.
III. Ağaçtaki bütün kuşlar patlama sesinden ürkerek uçup kaçtılar.
IV. Bütün elmayı arkadaşlarının gözü önünde ağzını şapırdatarak yedi.

A) I. ve II.
B) II. ve III.
C) III. ve IV.
D) I. ve III.

Soru 27.

I. Çalıların arasındaki kuş, onu görünce kaçmış.
II. Yarın bahçeden dedemle domates toplayacağız.
III. Hafta sonu ailemle Arkeoloji ve Doğa Müzesi'ni gezdik.
IV. Kedi, daldaki kuşu yakalamak için sinsi sinsi ağaca tırmanıyor.

Yukarıda numaralandırılmış olarak verilen cümlelerden hangi iki tanesi "tamamlanmış bir eylemi" **bildirmektedir**?

A) I. ve II.
B) I. ve III.
C) II. ve III.
D) III. ve IV.

TÜRKÇE TESTİNİZ BİTMİŞTİR.
YANITLARINIZI KONTROL EDEREK
FEN VE TEKNOLOJİ TESTİNE GEÇİNİZ.

Soru 1. Aşağıdaki şekilde, aralarında bulunan A ve B cisimleri nedeniyle Ahmet ile Ayşe birbirlerini görememektedirler.

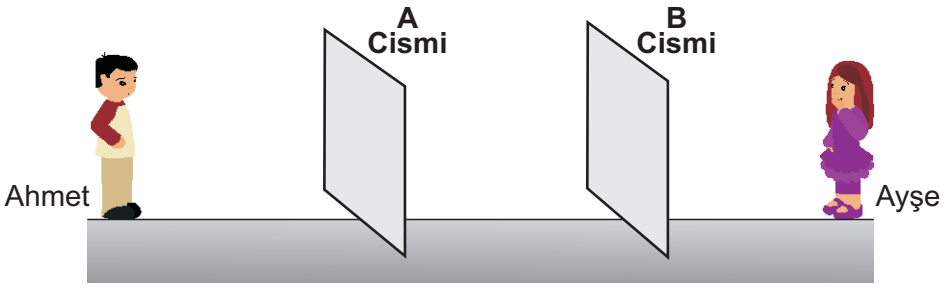

A cismi kaldırıldığında birbirlerini net olarak görebildiklerine göre, A ve B cisimlerinin ışığı geçirme durumları bakımından sahip oldukları özellikler hangi seçenekte doğru olarak verilmiştir?

	A Cismi	B Cismi
A)	Yarı Saydam Madde	Yarı Saydam Madde
B)	Opak Madde	Saydam Madde
C)	Opak Madde	Yarı Saydam Madde
D)	Saydam Madde	Opak Madde

Soru 2. Gölge oluşumunu incelemek isteyen bir öğrenci yandaki düzeneği kuruyor. Buna göre, aşağıdaki ifadelerden hangileri **yanlıştır**?

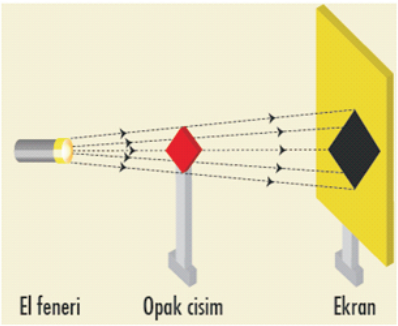

I. El feneri, opak cisme yaklaştırıldığında tam gölgenin alanı büyür.
II. El feneri, opak cisimden uzaklaştırıldığında tam gölgenin alanı büyür.
III. Opak cisim ekrandan uzaklaştırıldığında tam gölgenin alanı büyür.

A) I ve II
B) II ve III
C) I ve III
D) Yalnız II

Soru 3.

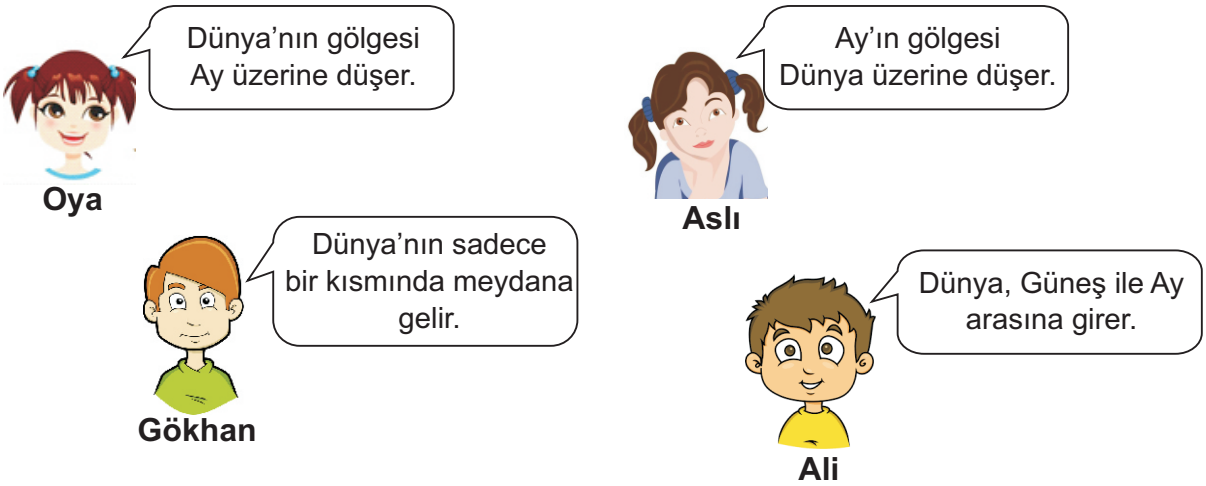

Yukarıda isimleri verilen öğrenciler Ay ve Güneş tutulması ile ilgili bilgiler vermiştir. Hangi öğrencilerin söylediği **yalnızca Güneş Tutulması için geçerlidir**?

A) Aslı ve Gökhan
B) Gökhan ve Ali
C) Oya ve Aslı
D) Aslı ve Ali

Soru 4. Aşağıda verilen sesle ilgili özelliklerden hangileri doğrudur?

I. Ses, opak maddelerde yayılır.
II. Ses, boşlukta yayılır.
III. Ses; katı, sıvı ve gaz ortamlarda yayılır.

A) Yanız I
B) I. ve II.
C) I. ve III.
D) II. ve III.

Soru 5.

	1. işlem: Çubukla maddelere ayrı ayrı vuruluyor.
	2. işlem: Havası alınmış fanusun içerisine alarmı kurulmuş çalar saat konuyor.
	3. işlem: İki taş parçası önce su içerisinde sonra hava ortamında birbirine vuruluyor.

Yukarıda yapılan deneylerden yola çıkarak aşağıdaki sorulardan hangisine cevap **bulunamaz**?

A) Ses boşlukta da yayılır mı?
B) Ses, kaynağından uzaklaştıkça sesin enerjisi azalır mı?
C) Özdeş ses kaynakları her yerde aynı sesi mi çıkarır?
D) Farklı maddelerin çıkardığı sesler de farklı mıdır?

Soru 6. Canlıların sınıflandırılmasını gösteren aşağıdaki diyagramda I, II ve III şeklinde numaralandırılmış yerlere sırası ile yazılması gerekenler hangi seçenekte doğru olarak verilmiştir?

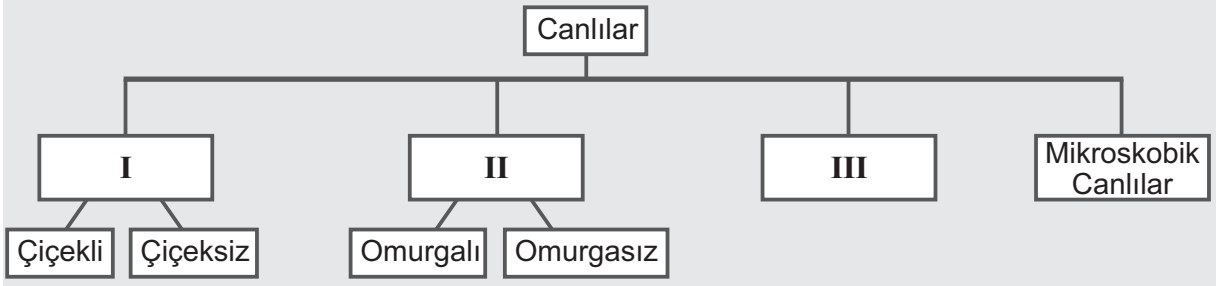

	I	II	III
A)	Bitkiler	Böcekler	Hayvanlar
B)	Mantarlar	Hayvanlar	Bitkiler
C)	Mantarlar	Böcekler	Bitkiler
D)	Bitkiler	Hayvanlar	Mantarlar

Soru 7.

Çiçekli bitkiler dört kısımdan oluşmaktadır. Bunlar kök, gövde, yaprak ve çiçektir.

Aşağıdakilerden hangisi **yaprağın görevidir**?

A) Bitkinin besinini üretmek.
B) Çevreye güzel kokular yaymak.
C) Bitkinin üremesini sağlamak.
D) Bitkinin dik durmasını sağlamak.

Soru 8.

Çevremizde gördüğümüz bitkiler çeşitli benzerlikler ve farklılıklar gösterir.

Buna göre;

I. Kara yosunu ve eğrelti otu spor adı verilen özel üreme yapılarıyla çoğalır.
II. Domates ve Limon bitkilerinde üreme organı çiçektir.
III. Bitkinin tohumlarını saklayan, çoğu zaman lezzetli ve sulu yapıya meyve denir.

Yukarıda verilenlerden hangileri, **çiçekli bitkilere** ait özelliklerdir?

A) Yalnız I
B) I ve II
C) II ve III
D) I, II ve III

Soru 9. Aşağıda öğrencilerin, sadece mikroskopla görülebilen canlılarla ilgili söyledikleri verilmiştir.

Özlem: Toprakta, suda ve vücudumuzda yaşayabilirler.
Hasan: İnsanlarda bulaşıcı hastalıklara neden olabilirler.
Sema : Sütün yoğurda dönüşmesini sağlarlar.
Ahmet: Omurgasız hayvanlar grubuna girerler.

Buna göre, kimlerin söylediği bilgiler doğrudur?

A) Sadece Özlem
B) Hasan, Sema, Ahmet
C) Özlem, Ahmet
D) Özlem, Hasan, Sema

Soru 10. Hayvanlar, vücutlarında omurga bulundurma durumuna göre gruplandırılmıştır. Buna göre, aşağıdaki hayvanlardan hangisi diğerlerinden **farklı grupta** yer alır?

A) Tilki
B) Solucan
C) Kurbağa
D) Balık

Soru 11. Ali, basit bir elektrik devresi hazırlamıştır. Fakat ampul ışık vermemektedir. Buna göre, aşağıdakilerden hangileri ampulün **ışık <u>vermeme</u> nedenleri** arasındadır?

I. Bağlantının kopması,
II. Pil ömrünün tamamlanmış olması,
III. Bozuk bir ampulün kullanılmış olması,
IV. Pile doğru bağlantının yapılmamış olması,

A) I ve III
B) III ve IV
C) II, III ve IV
D) I, II, III ve IV

Soru 12. Pil sayıları eşit olan ve özdeş lambalarla seri olarak kurulan elektrik devrelerindeki lamba parlaklıklarının grafiği yandaki gibidir.

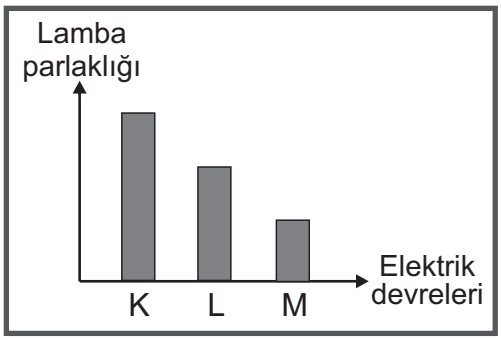

Buna göre K, L ve M devrelerindeki **lamba sayıları arasındaki ilişki** hangi seçenekteki gibidir?

A) K ve L devrelerindeki lamba sayıları eşittir.
B) K devresindeki lamba sayısı en çoktur.
C) M devresindeki lamba sayısı en çoktur.
D) Her üç devrenin lamba sayıları aynıdır.

Soru 13. Yandaki elektrik devresinin **eleman sayısı** seçeneklerden hangisinde doğru olarak verilmiştir?

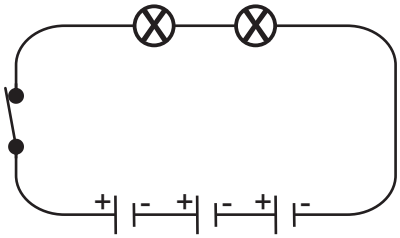

	Ampul Sayısı	Pil Sayısı	Anahtar Sayısı
A)	3	3	1
B)	4	3	1
C)	2	2	2
D)	2	3	1

Soru 14. Aşağıdaki tabloda iletken ve yalıtkan maddeler gruplara ayrılmıştır. Fakat her iki grupta da maddeler tabloya yerleştirilirken **hata** yapılmıştır. Buna göre, gruptaki **hangi iki madde yer değiştirirse** tablo doğru olur?

İLETKEN	YALITKAN
Bakır	Alüminyum
Demir	Plastik
Kurşun	Porselen
Cam	Tahta

A) Cam ve Alüminyum
B) Kurşun ve Alüminyum
C) Kurşun ve Plastik
D) Cam ve Porselen

FEN VE TEKNOLOJİ TESTİNİZ BİTMİŞTİR.
YANITLARINIZI KONTROL EDEREK SOSYAL BİLGİLER TESTİNE GEÇİNİZ.

Soru 1. Gökhan'ın yaşadığı şehir deniz seviyesinden yaklaşık olarak 2700 m yüksektedir.
Bu durumda Gökhan'ın yaşadığı şehre ait bölge, fiziki haritada hangi renkle gösterilmelidir?

A) Sarı
B) Mavi
C) Açık kahverengi
D) Koyu kahverengi

Soru 2. Ahmet, haritadan Girne - Karşıyaka arasındaki mesafeyi **2 cm** olarak ölçüyor. Aşağıda verilen şekil bu haritanın çizgi ölçeği olduğuna göre, seçeneklerden hangisi bu iki yerleşim yeri arasındaki **gerçek mesafeyi** göstermektedir**?**

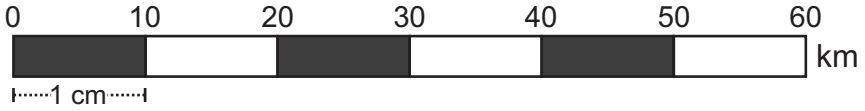

A) 5 km
B) 10 km
C) 15 km
D) 20 km

Soru 3. Seçeneklerde verilen kesir ölçeklerinden hangisi **<u>en çok</u>** ayrıntıyı gösteren haritaya aittir?

A) 1/100
B) 1/10 000
C) 1/1 000 000
D) 1/100 000 000

Soru 4. Kıbrıs adasının matematiksel konumu aşağıdakilerden hangisinde doğru olarak verilmiştir?

A) Ekvator'un güneyinde ve Greenwich başlangıç meridyeninin doğusundadır.
B) Ekvator'un güneyinde ve Greenwich başlangıç meridyeninin batısındadır.
C) Ekvator'un kuzeyinde ve Greenwich başlangıç meridyeninin doğusundadır.
D) Ekvator'un kuzeyinde ve Greenwich başlangıç meridyeninin batısındadır.

Soru 5. Aşağıda verilen tanım ve kavramlar hangi seçenekte doğru olarak eşleştirilmiştir?

I. Demokrasinin temel ilkelerinden biridir. Millet, bu ilkeden aldığı hakkını milletvekilleri aracılığı ile yerine getirir.	**A.** Devlet
II. Toplumsal yaşamı kolaylaştıran kuralların başında gelen temel yasasıdır.	**B.** Milli Egemenlik
III. Toplum yararına çalışan, toplum içerisindeki ilişkileri düzenleyen, kuralları koyan, halkını tehditlere karşı koruyan düzendir.	**C.** Anayasa

A) I ⇨ B II ⇨ C III ⇨ A
B) I ⇨ B II ⇨ A III ⇨ C
C) I ⇨ C II ⇨ A III ⇨ B
D) I ⇨ A II ⇨ C III ⇨ B

Soru 6.

KKTC vatandaşlarından aday olan kişiler arasından seçilirler. Bu kişiler Cumhuriyet Meclisi'ni oluştururlar. Yasa yapmak, değiştirmek ve kaldırmak, devlet bütçesini görüşmek, Bakanlar Kurulu'nu ve Bakanları sorgulamak ve denetlemek bu kişilerin görevleri arasındadır.

Yukarıdaki açıklamada anlatılan kim veya kimlerdir?

A) Başbakan
B) Milletvekilleri
C) Cumhurbaşkanı
D) Yargıçlar

Soru 7. Aşağıda verilen tanım ve kavramlar hangi seçenekte doğru olarak eşleştirilmiştir?

I. Anayasaya göre Cumhuriyet Meclisine verilmiş görevdir.	**A.** Yargı
II. Yasaları uygulamaya koymak üzere Cumhurbaşkanı ve Bakanlar Kurulu'na verilmiş görevdir.	**B.** Yasama
III. Anayasamızca bağımsız mahkemelere verilmiş görevdir.	**C.** Yürütme

A) I ⇨ B II ⇨ C III ⇨ A
B) I ⇨ A II ⇨ B III ⇨ C
C) I ⇨ B II ⇨ A III ⇨ C
D) I ⇨ A II ⇨ C III ⇨ B

Soru 8.

Ahmet Bey, bir dizüstü bilgisayara ihtiyaç duymaktadır. Satın almak için gittiği mağazadaki görevliye bir takım sorular sorduktan sonra bilgisayarı almaya karar vermiştir.

Yukarıda verilen ifadeye göre, seçeneklerden hangisi bilinçli bir tüketici olan Ahmet Bey'in sorması gereken sorulardan biri **<u>değildir</u>**?

A) Bilgisayarın fiyatı
B) Garanti belgesinin süresi
C) İade veya değişim yapılıp yapılmayacağı
D) Mağazada aynı bilgisayardan kaç adet olduğu

Soru 9. İşadamı Hasan Bey, KKTC'de yetişen ürünlere yönelik bir fabrika kurmak istemektedir. KKTC'de yetişen ürünleri de göz önünde bulundurarak Hasan Bey'e seçeneklerde verilenlerden hangisini kurması **<u>önerilmez</u>**?

A) Zeytinyağı Şişeleme Fabrikası
B) Çilek Paketleme Fabrikası
C) Ananas Suyu Paketleme Fabrikası
D) Portakal Suyu Paketleme Fabrikası

Soru 10. Aşağıda verilen cümlelerden hangisi turizm için **<u>yanlış</u>** bir bilgidir?

A) Ülke ekonomisine büyük ölçüde katkıda bulunur.
B) Yabancıların ülke yönetiminde söz sahibi olmasını sağlar.
C) Kültür alışverişini kolaylaştırır.
D) Ulaşım ve haberleşme olanaklarının gelişmesini sağlar.

SOSYAL BİLGİLER TESTİNİZ VE SINAVINIZIN I. OTURUMU BİTMİŞTİR.
YANITLARINIZI KONTROL EDİNİZ.